موضوع التاريخ و الجغرافيا لشعبة تسيير و اقتصاد بكالوريا 2011

الجمهورية الجزائرية الديمقراطية الشعبية

وزارة التربية الوطنية — الديوان الوطني للامتحانات والمسابقات

امتحان بكالوريا التعليم الثانوي — دورة: جوان 2011

الشعبة: تسيير واقتصـــــاد

اختبار في مادة: التاريخ والجغرافيا — المدة: 03سا و30د

على المترشـــح أن يختار أحـــد الموضـــوعيـــن التـــاليين:

الموضـــــوع الأول

تاريـــــخ

الجزء الأول: (06 نقاط)

«... وقد أكد المجلس الوطني للثورة الجزائرية من جديد مواقف الثورة الجزائرية في ميدان المغرب العربي، والميدان العربي والإفريقي، وفي النطاق الإفريقي-الأسيوي، وهي مواقف تندرج في حركات التحرير التي تقودها الشعوب للتخلص من الاستعمار المباشر ومن مخلفاته المتمثلة في الاستعمار الحديث ...» .

المرجع: من بيان المجلس الوطني للثورة بعد اجتماعه في طرابلس 9-1961/08/27

1 – حدّد مفهوم المصطلحات التي تحتها خط.

2 – عرّف بالشخصيات التالية:

* الجنرال جياب * جون كنيدي * محمد بوضياف

3 – أكمل جدول الأحداث التالية:

الحـــــــــــدث	التاريـــــــــخ
	13 أوت 1961
هجوم الشمال القسنطيني	
مشروع قسنطينة	

الجزء الثاني: (04 نقاط)

نشطت الحركة الوطنية بعد الحرب العالمية الثانية 1954/1945، وتبلور التوجه الاستقلالي فكرا وعملا.

المطلـــوب: انطلاقا من الفقرة واعتمادا على ما درست، اكتب مقالا تاريخيا تبرز فيه:

1- مظاهر تبلور الفكر الاستقـــلالي.

2- المحطات الرئيسية لتحضير الثورة.

جغرافيـــا

الجزء الأول: (06 نقاط)

1- حدّد مفهوم المصطلحات التالية:

* منظمة التجارة العالمية (OMC) * تنظيم الإقليم * التنمية المستدامة.

2- إليك جدولا يمثل ترتيب ونسبة الإنتاج الصناعي العالمي للو.م.أ سنة 2004.

المنتـــــوج	الرتبة العالمية	النسبة من الإنتاج العالمي
الصلـــــب	3	%09.4
الألمنـــــيوم	4	%12.8
المطاط الاصطناعي	1	%18.8
الفحـــــم	2	%23.6
الكهربـــــاء	1	%23.1
الغاز الطبيعـــي	2	%20.1
البتـــــرول	3	%09.6

المرجع: الصورة الاقتصادية للعالم 2005.

المطلـــوب:

أ/ مثّل نسب الجدول بأعمدة بيانية، بمقياس: 1 سم ← %2

1 سم ← منتوج

ب/ علق على الرسم.

الجزء الثاني: (04 نقاط)

تعتبر آسيا الشرقية والجنوبية الشرقية قوّة ديمغرافية وفضاء قويا للنمو الاقتصادي.

المطلـــوب:

انطلاقا من الفقرة واعتمادا على ما درست، اكتب موضوعا جغرافيا تبرز فيه:

1- الأقطاب الاقتصادية في المنطقة .

2- تأثير الوزن الديمغرافي والحرية الاقتصادية على مسار التنمية الاقتصادية.

الموضـــــوع الثاني

تاريـــــــخ

الجزء الأول: (06 نقاط)

1- حدّد مفهوم المصطلحات التالية:

* الإمبريالية * القوّة الثالثة * الاستعمار المقنع.

2- عرّف بالشخصيات التالية:

* ريتشارد نيكسون * العربي بن مهيدي * فيدال كاسترو.

3- أكمل جدول الأحداث:

الحـــــــــدث	تاريـــــــــخه
	24 فيفري 1956
تأسيس الحكومة المؤقتة للجمهورية الجزائرية	
	13 مـــاي 1958

الجزء الثاني: (04 نقاط)

مثلما كانت الحركات التحررية في فترة الصراع بين المعسكرين الشرقي والغربي محل اهتمام تحوّل العالم الثالث في ظل القطبية الأحادية إلى هيمنة مطلقة للولايات المتحدة الأمريكية.

المطلـــــوب:

انطلاقا من الفقرة واعتمادا على ما درست، اكتب مقالا تاريخيا تبرز فيه:

1-دوافع دعم الاتحاد السوفيتي للحركات التحررية.

2-مظاهر تكريس الهيمنة الأمريكية على العالم الثالث.

جغـــــرافيا

الجزء الأول: (06 نقاط)

« ...يشكل النمو الاقتصادي مؤشرا كميا للثروة بالنسبة لأي بلد، يتم قياس ذلك بواسطة ما يسمى بالناتج الداخلي الخام أو الناتج القومي الخام، وهـــي مؤشرات لا تقدم معطيات لقياس توزيع الثروة أو معرفة شروط حياة السكان ...» .

المرجع: الكتاب المدرسي للسنة الثالثة ص:17

1- حدّد مفهوم المصطلحات التي تحتها خط.

2- إليك جدولا يمثل تطور التجارة الخارجية لبعض دول شرق وجنوب شرق آسيا سنة 2005:

الوحدة: مليار دولار

الدول	اليابان	الصين	تايوان	كوريا الجنوبية	تايلاندا	ماليزيا
قيمة الصادرات	594.9	752	197.8	284.4	110.1	140.9
قيمة الواردات	514.9	660	182.6	261.2	118.1	114

المرجع: منظمة التجارة العالمية 2006

- علّق على الجدول.

3- على خريطة شرق وجنوب شرق آسيا المرفقة، وقّع أسماء ثلاث دول واردة في الجدول.

الجزء الثاني: (04 نقاط)

يعدّ الإتحاد الأوربي من أنجع التكتلات الاقتصادية الراهنة في العالم، نظرا لما حققه من نتائج ملموسة في الاقتصاد الأوربي والعالمي.

المطلـــوب:

انطلاقا من الفقرة واعتمادا على ما درست، اكتب موضوعا جغرافيا تبرز فيه:

1- عوامل القوة الاقتصادية للإتحاد الأوربي.

2- مظاهـــر التفـــوق الاقتصـــــادي.

المرفقـــــــات:

شرق وجنوب شرق آسيا

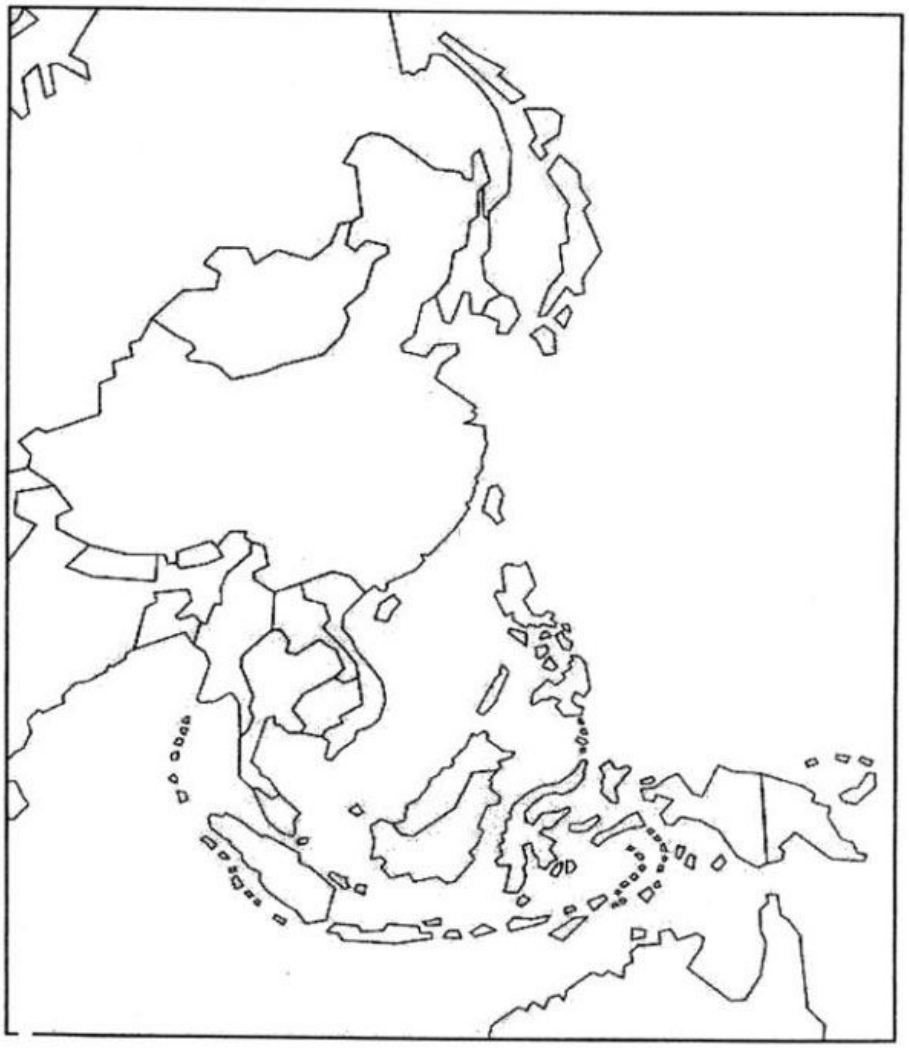

ينجز العمل المطلوب على الخريطة وتعاد مع أوراق الإجابة

تكتب الإجابة النموذجية على هذه الورقة ولا تقبل سواها

خاص بالديوان

الإجابة النموذجية لموضوع مقترح لامتحان ...بكالوريا ..... دورة .2011.....

اختبار مادة: .التاريخ والجغرافيا ..... الشعبة/السلك (*): .تسيير واقتصاد.....

المدة: ..3سا.و30د.....

الرمز:

الإجابـــة النموذجيـــة

عدد الصفحات 07

عناصر الإجابة	العلامة مجزأة	العلامة المجموع
الموضوع الأول		
التاريخ		
الجزء الأول: (06نقاط)		
1- مفاهيم المصطلحات:		
*- المجلس الوطني للثورة الجزائرية: شكل بمقتضى قرارات مؤتمر الصومام 20أوت 1956 يمثل السلطة التشريعية، يتكون من 34 عضو يجتمع مرة في السنة من صلاحياته وقف القتال.	0.75	
*- حركة التحرير: رد فعل شعبي وطني باستخدام كافة الوسائل لتصفية الاستعمار واستعادة السيادة الوطنية.	0.75	
*- الاستعمار الحديث: شكل من أشكال السيطرة الاستعمارية يعتمد على الهيمنة السياسية والاقتصادية والثقافية والاجتماعية.	0.75	06
2- التعريف بالشخصيات:		
*- الجنرال جياب: (ناغويان جياب) عسكري وسياسي فيتنامي، بطل معركة ديان بيان فو ضد الفرنسيين سنة 1954 ، ومخطط مقاومة الفيت كونغ ضد الاحتلال الأمريكي 1964-1973.	0.75	
*- جون كينيدي: 1917ـ1963 رئيس الولايات المتحدة الأمريكية 1961 أغتيل سنة 1963 شهد أزمة الصواريخ في كوبا وسباق غزو الفضاء.	0.75	
*- محمد بوضياف:(1919-1992) من مناضلي حزب الشعب وحركة الانتصار للحريات وعضو في المنظمة الخاصة واللجنة الثورية للوحدة والعمل ومجموعة 22 ومنسق جبهة التحرير من الزعماء الخمس المختطفين1956، أطلق سراحه في 19مارس1962. عين رئيسا للجزائر1992 أغتيل في نفس السنة.	0.75	
3- جدول الأحداث		

الحدث	تاريخه	
بناء جدار برلين	1961-08-13	0.50
هجوم الشمال القسنطيني	1955-08-20	0.50
مشروع قسنطينة	1958-10-03	0.50

125

		الجزء الثاني: (04نقاط)
	0.50	المقدمة : نشاط الحركة الوطنية بعد الحرب العالمية الثانية بين العمل السياسي وتبلور الفكر الاستقلالي.
		العرض:
04		**1-مظاهر تبلور الفكر الاستقلالي:**
	0.50	*-التأكد من عقم النضال السياسي بعد مجازر 8ماي1945.
	0.25	*-رفض القانون الخاص " دستور1947 ".
	0.25	*-إنشاء المنظمة الخاصة 1947 وحتمية الكفاح المسلح.
	0.50	*-أزمة حركة الانتصار للحريات الديمقراطية 1953 والتوجه نحو العمل الثوري.
		2-المحطات الرئيسية لتحضير الثورة:
	0.50	*-ميلاد اللجنة الثورية للوحدة والعمل 23مارس 1954.
	0.25	*-اجتماع مجموعة22 يوم23 جوان 1954.
	0.25	*-اجتماع لجنة الستة وتقسيم الجزائر إلى خمس مناطق 10أكتوبر 1954.
	0.50	*-ميلاد جبهة التحرير وجيش التحرير الوطني.
	0.50	الخاتمة: الكفاح المسلح طريق لاستعادة السيادة الوطنية.
		الجغرافيا :
		الجزء الأول: (06نقاط)
		1- مفاهيم المصطلحات:
	0.75	*- منظمة التجارة العالمية : : تأسست سنة 1995خلفا (للغات) مقرها جنيف . مهمتها تنظيم المبادلات التجارية العالمية وتشجيع التبادل الحر بين الدول.
	0.75	*- تنظيم الإقليم : تنظيم المظاهر الجغرافية والبشرية والاقتصادية باستغلال الموارد الطبيعية والبشرية .
	0.75	*- التنمية المستدامة: التنمية التي تلبّي حاجيات الحاضر دون المساس بمستقبل الأجيال القادمة .
		2- التمثيل والتعليق:
06		**أ-الرسم البياني:**
	1.25	الإنجاز
	0.25	العنوان
	0.25	المقياس
		ب-التعليق:
	0.75	*- احتلال الو. م. ا المراتب الأولى في أهم القطاعات الصناعية " غاز، بترول مطاط اصطناعي ".
	0.75	*- المساهمة بنسب كبيرة في الإنتاج العالمي.
	0.50	*- تنوع الإنتاج وضخامته.
		الجزء الثاني: (04نقاط)
	0.50	المقدمة :منطقة شرق وجنوب شرق آسيا بين القوة الديمغرافية والنمو الاقتصادي.
		العرض:
		1-الأقطاب الاقتصادية في المنطقة:
	0.25	-اليابان
	0.25	- الصين
	0.25	- النمور الأربعة
	0.25	- التنينات الأربعة والأسيان.

126

2-تأثير الوزن الديمغرافي والحرية الاقتصادية على مسار التنمية :

أ ــ الديمغرافي :

*-وفرة القوى العاملة المتميزة(الكفاءة وانخفاض التكلفة). 0.50

*- اتساع السوق الاستهلاكية. 0.25

ب ــ الحرية الاقتصادية :

*- حيوية التبادل البيني. 0.25

*- انفتاح المنطقة على الاستثمارات الأجنبية. 0.25 04

*- إنشاء المناطق الحرة . 0.25

*-تسجيل أكبر نسب النمو الاقتصادية في العالم. 0.25

*- قوة أسواقها المالية " مثل" بورصة طوكيو – هونغ كونغ...". 0.25

الخاتمة: استغلت منطقة شرق وجنوب شرق أسيا الوزن الديمغرافي لبناء قوتها الاقتصادية . 0.50

الموضوع الثاني

التاريخ

الجزء الأول:(06 نقاط)

1- مفاهيم المصطلحات:

*- الامبريالية: مصطلح سياسي يعني توسيع الهيمنة والسيطرة خارج الحدود القطرية لتشكيل مناطق النفوذ ظهر بعد الحرب العالمية الثانية، أطلقته الأنظمة الشيوعية على نفوذ الدول الرأسمالية. 0.75

*- القوة الثالثة :قوة أنشأتها فرنسا من الموالين لها (العملاء، القياد، بعض المنتخبين) الهدف منها تضليل الرأي العام العالمي. 0.75

*- الاستعمار المقنع: احد أشكال السيطرة الاستعمارية التي تعتمد على التحكم السياسي غير المباشر أو التواجد العسكري، يقوم على السيطرة الاقتصادية والاجتماعية والثقافية. 0.75

2- التعريف بالشخصيات:

*- ريتشارد نيكسون: ترأس الو. م. ا 1969-1974، تميزت فترة حكمه بزيارته للصين الشعبية. استقال من منصبه في سنة 1974 بعد فضيحة واترغيت. 0.75

*- العربي بن مهيدي: 1923-1957 من مناضلي حزب الشعب، حركة الانتصار للحريات الديمقراطية، عضو في المنظمة الخاصة، عضو في مجموعة 22 قاد الولاية الخامسة (وهران) عضو في لجنة التنسيق والتنفيذ. استشهد تحت التعذيب في 4 مارس1957. 06 0.75

*- فيدال كاسترو: زعيم الثورة الكوبية 1953-1959 أقام نظاما شيوعيا، ترأس كوبا من1959 إلى 2008. يعتبر من اشد المعارضين للسياسة الأمريكية. 0.75

3- تكملة الجدول:

الحدث	تاريخه	
تأسيس الاتحاد العام للعمال الجزائريين	24فيفري1956	0.50
تأسيس الحكومة المؤقتة الجزائرية	19سبتمبر1958	0.50
تمرد الجيش الفرنسي بالجزائر بقيادة الجنرال ماسو	13ماي1958	0.50

127

الجزء الثاني: (04نقاط)		
المقدمة: شعوب العالم الثالث من القطبية الثنائية إلى الهيمنة الأمريكية.	0.50	
العرض:		
1- دوافع دعم الاتحاد السوفيتي للحركات التحررية:		
*-إضعاف القوى الاستعمارية الرأسمالية.	0.25	04
*- اكتساب مناطق نفوذ جديدة.	0.25	
*-نشر الفكر الشيوعي في الدول المستقلة حديثا.	0.25	
*-تطويق الرأسمالية الامبريالية .	0.25	
2- مظاهر تكريس الهيمنة الأمريكية على العالم الثالث :		
*-تسخير المنظمات الدولية لخدمة مصالحها.	0.50	
*- غزو العراق وأفغانستان.	0.25	
*- استغلال ونهب ثروات دول العالم الثالث.	0.50	
*- الحصار الاقتصادي على بعض الدول" إيران".	0.25	
*- إضعاف حركة عدم الانحياز .	0.25	
*- الهيمنة الاقتصادية على العالم باستعمال الشركات متعددة الجنسيات والهيئات المالية الدولية .	0.25	
الخاتمة: إن الاتجاه الجديد طبعه التزعم الأحادي للو. م. ا على العالم عامة والعالم الثالث خاصة.	0.50	
الجغرافيا:		
الجزء الأول: (06نقاط)		
1- مفاهيم المصطلحات:		
* المؤشر: رقم إحصائي يمثل ظاهرة معينة في فترة زمنية محددة لقياس متغيرات كمية أو نوعية اقتصادية، اجتماعية وثقافية (إيجابي -سلبي).	0.75	
* الناتج الداخلي الخام: قيمة السلع والخدمات المنتجة من الموارد المحلية خلال فترة زمنية معينة محليا.	0.75	
*الناتج القومي الخام: مجموع قيمة السلع والخدمات المنتجة في بلد ما خلال سنة معينة (المحلي والخارجي).	0.75	
2- التعليق:		
*ضخامة قيمة الصادرات والواردات.		
*تحتل الصين المقدمة في قيمة الصادرات والواردات تليها اليابان.	0.50	06
*انتعاش الاقتصاد الصيني والياباني وهيمنتهما على الأسواق الخارجية وتنامي استهلاك موارد الطاقة " البترول" لتلبية حاجيات مصانعهما.	0.50	
*تنامي الدول الصناعية الصاعدة " تايوان – كوريا الجنوبية – تايلاند – ماليزيا" نتيجة تفتحهم على العالم .	0.50	
3- الخريطة:		
الانجاز	1.25	
العنوان	0.25	
المفتاح	0.25	

128

	0.50	**الجزء الثاني: (04نقاط)** المقدمة:الاتحاد الأوربي بين أهميته الإقليمية ومكانته العالمية.
		العرض:
	0.25	**1-عوامل القوة الاقتصادية للاتحاد الأوربي:**
	0.25	*- العامل التاريخي(ظهور الثورة الصناعية على أراضيه، نهب خيرات **المستعمرات** الاستفادة من المساعدات الأمريكية ..).
	0.25	*- العامل السياسي (الاستقرار السياسي والأمني، طبيعة الحكم).
	0.25	*- العامل البشري والاقتصادي (الوزن الديمغرافي: يد عاملة، أسواق استهلاكية).
	0.25	*- التحكم في التكنولوجيا.
		*- وفرة رؤوس الأموال.
04		*- العامل الطبيعي(اتساع المساحة، تنوع مظاهر السطح والموارد).
	0.25	**2- مظاهر التفوق الاقتصادي للاتحاد الأوربي :**
	0.25	*- ضخامة الإنتاج وتنوعه .
	0.25	*- ضخامة الأرصدة المالية في البنوك والبورصات.
	0.25	*- المرتبة الأولى عالميا في الدخل الوطني.
	0.25	*- مصدر هام من مصادر الغذاء العالمي.
	0.25	*- قوة العملة الأوربية (الأورو) مقابل العملات الأخرى.
	0.25	*- قوة الاستثمارات بفضل شركاتها المتعددة.
		*- حيوية التجارة الخارجية وسيطرتها على الأسواق العالمية 39%من المبادلات العالمية سنة2005.
	0.50	**الخاتمة:** الاتحاد الأوربي قوة اقتصادية واحد أقطاب الثالوث العالمي ومركز من مراكز القرار في العالم.

129

العنوان: بعض دول شرق وجنوب شرق آسيا

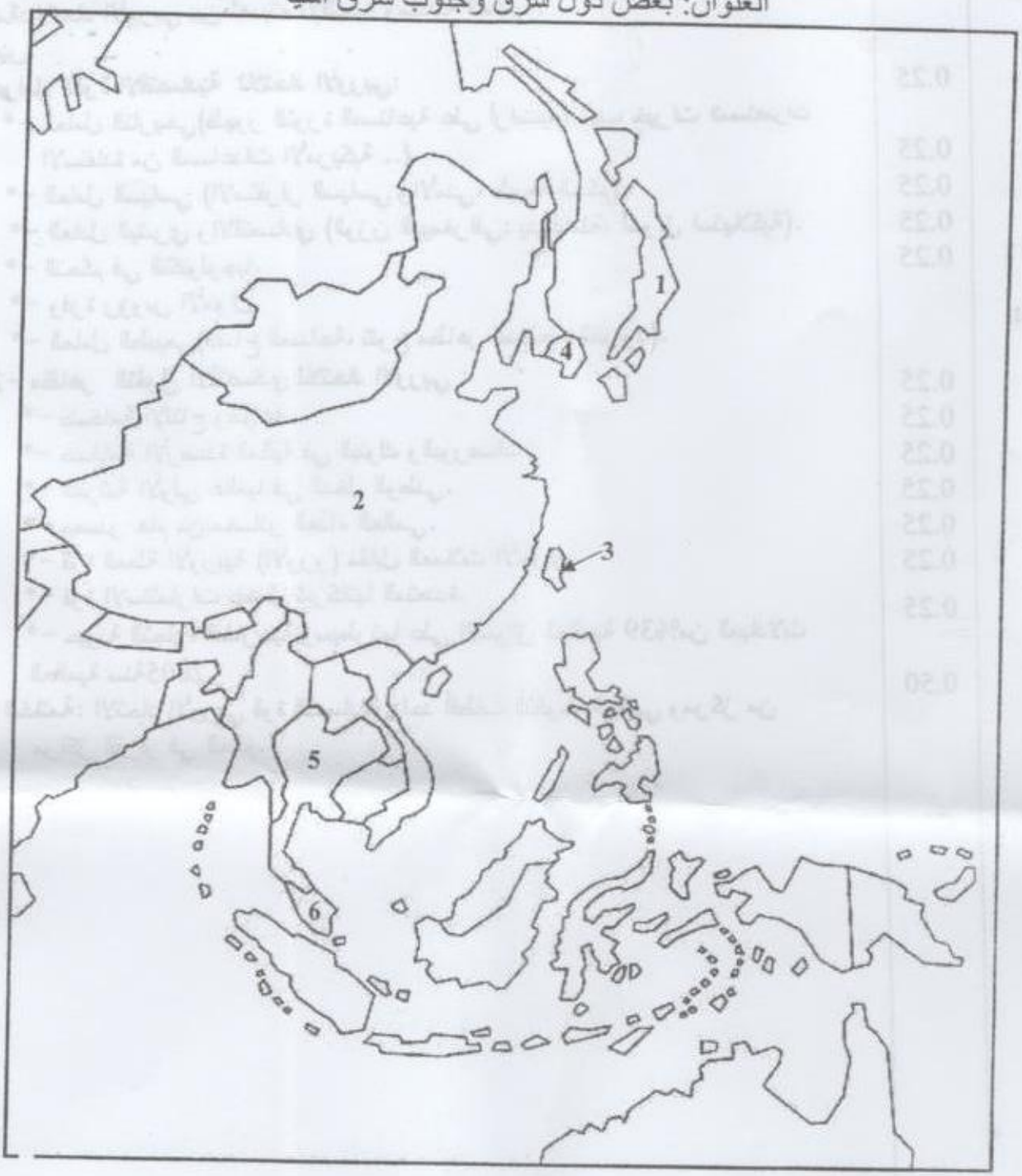

المفتاح:

1. اليابان
2. الصين
3. تايوان
4. كوريا الجنوبية
5. تايلاندا
6. ماليزيا

130

ملاحظة: المترشح يوقع فقط ثلاث دول من الستة

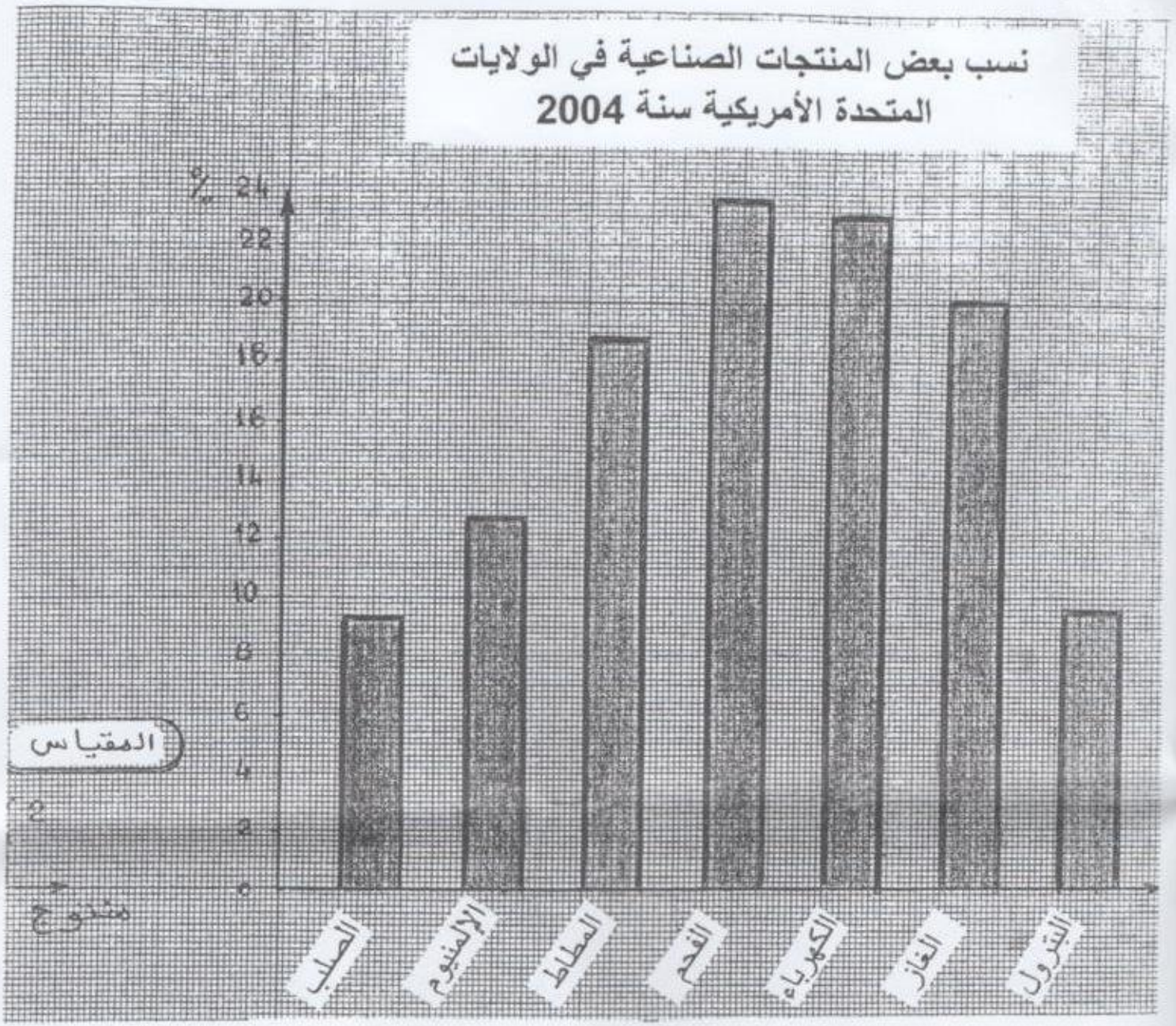
نسب بعض المنتجات الصناعية في الولايات المتحدة الأمريكية سنة 2004
%
24
22
20
18
16
14
12
10
8
6
4
2
0
المقياس
مثلوج
الصلب
الألمنيوم
المطاط
الفحم
الكهرباء
الغاز
البترول

131